معمای شطرنج

نوبت حرکت با سفید است، آیا می توانید تنها در چهار حرکت، مهره سیاه را مات کنید؟

خفن استریپ

حس طنزتان را به کار بیندازید و حدس بزنید تصویر، چه کلمه‌ای را نشان می دهد! به نمونه توجه کنید و برای این که بدانید کلمه چند حرفی است تعداد خانه های زیر تصویر را بشمارید.

معما(۱)

دزدی از کارخانه کفش

مالک دو کارخانه کفش زنانه متوجه شد کارگرانش هر روز تعداد زیادی از کفش ها را برای همسر یا دخترشان از کارخانه خارج می کنند؛ اما چون نمی خواست از بازرسی بدنی حین خروج استفاده کند راه حلی به ذهنش رسید که از دزدی پیشگیری کند. به نظر شما او چه کرد؟

بازی ریاضی

یکی از اعداد درست و در جای درست قرار دارد	۷	۵	۶	۱
تمام اعداد غلط هستند	۵	۷	۱	۹
یکی از اعداد درست و در جای درست قرار دارد	۹	۸	۱	۵
دو تا از این اعداد درست ولی هیچ کدام در جای درست قرار ندارد	۴	۳	۲	۵
دو تا از این اعداد درست ولی هیچ کدام در جای درست قرار ندارد	۷	۹	۳	۲

اگر کمی با اعداد رابطه خوبی داشته باشید، می توانید رمز ۴ رقمی مخفی شده را بر اساس داده های بالا بیابید؛ فقط کافی است کمی دقت کنید و رابطه بین اعداد را در سطرهای بالا پیدا کنید.

عددیاب

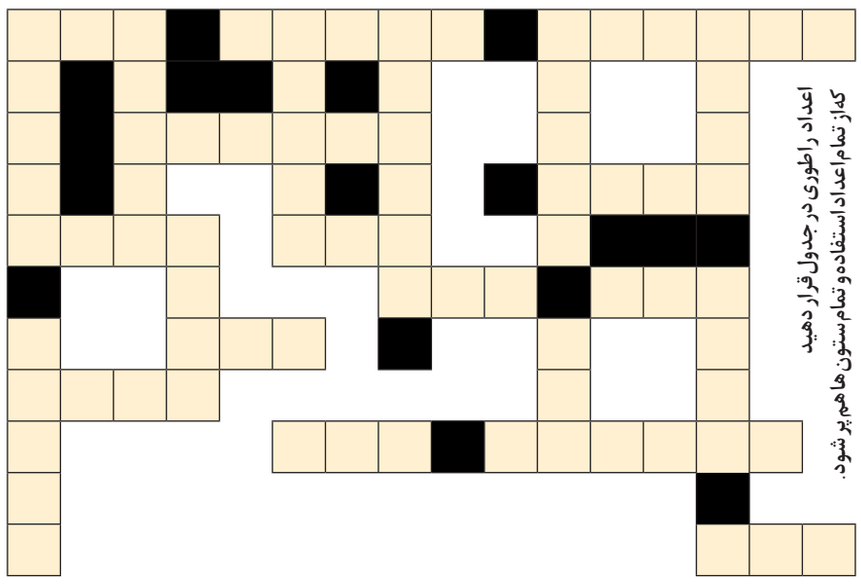

اعداد را طوری در جدول قرار دهید که از تمام اعداد استفاده و تمام ستون ها هم پر شود.

سه رقمی:
۲۱۹-۸۴۳-۲۳۶
۶۵۱-۵۶۳-۴۸۳
۸۲۱-۷۲۴

چهار رقمی:
۸۴۵۲-۵۶۳۲
۳۶۹۲-۴۸۲۵
۲۶۳۵-۵۹۸۲

پنج رقمی:
۲۸۷۹۲-۷۳۲۵۴
۷۸۳۲۴-۶۵۵۲۳
۲۷۳۸۵-۹۵۴۸۳

شش رقمی:
۹۱۸۲۵۳-۹۳۲۵۴۱
۵۷۹۳۱۶-۸۴۶۷۳۵

اختلاف تصاویر

آیا می توانید تعداد ۵ تفاوت را بین دو تصویر مشابه پیدا کنید؟
با این تمرین می توانید آلزایمر را از خود دور کنید.
این بازی همچنین ورزشی برای ذهن شماست تا در کارهای روزمره تمرکز بیشتری داشته باشید.
لذت این بازی زمانی بیشتر می شود که آن را در کنار خانواده و با مشارکت آن ها انجام دهید.

عکس از پاشگاه خبرنگاران جوان: جشنواره تنگ گوازی آبه در میناب

معما(۲)

۷ رفیق در کلبه

هفت رفیق در یک روز بارانی به کلبه ای در جنگل رسیدند که اطرافش پر از درختان بلوط بود. بعد از کمی استراحت همگی تصمیم گرفتند تا بهتر شدن هوا یک کاری را شروع کنند. نفر اول تصمیم گرفت چای درست کند. نفر دوم گفت جوجه سیخ می کشد. نفر سوم گفت جوجه ها را روی آتش می گیرد. نفر چهارم تصمیم گرفت شطرنج بازی کند. نفر پنجم گفت رمان جالبی در کوله اش دارد و می خواهد آن را بخواند. نفر ششم گفت از فعالیت بقیه عکس می گیرد تا در اینستاگرام بگذارد. نفر هفتم چه کار خواهد کرد؟

جدول سخت | ۶۵۹



افقی:
۱. دلیری-بلبل ۲. ستون خیمه-پرچم-هویدا ۳. دف-پالان-گوشت ترکی ۴. آهنگ ساز آلمانی-جزیره ۵. مدهوش-نام ترکی-قمر ۶. پنج آذری-لاجوردی-واجب ۷. اثر روسو-رام-شبیه ۸. بیرون کودکانه-واحد سطح-آبگینه ۹. کریه-فرمان ۱۰. نیلوفر هندی-آواز دسته جمعی-پزشک کارآموز ۱۱. بچه شرور-به سوی-از درختان جنگلی ۱۲. گدای سمج-آفت قارچی غلات

عمودی: ۱. شهری در هلند-اثر میچل ۲. دیواری که در سر کوچه برای جلوگیری از هجوم دشمن درست کنند-رواندار تابستانی-کفش ۳. تورم پرده چشم-چین و چروک-سمبل ممانعت ۴. فعل خارجی-خوردن-سیخونک ۵. مستمری-زرشک ۶. شعله آتش-مرفق-قدم یکپا ۷. بازی نفس گیر-چوب راست و بلند-ثروتمند ۸. قدح-روزه هندو ۹. مفلوج-پرتو-نصف خروار ۱۰. سوسن زرد-خرما-حیوان بارکش ۱۱. سرخ-از قبایل صدر اسلام-ملول ۱۲. خالق گنتسبی بزرگ-دربست کارخانه

حل جدول شماره ۶۵۸

جدول متوسط | ۷۴۵۲



افقی:
۱. دست دوم فروش-ماز ۲. فریاد-میان-بخش متحرک میز ۳. آزاردهنده-موجود نامرئی-آب عرب ۴. ارباب-باتجربه ۵. طلای قالبی-رازقی-پارچه مالیدنی ۶. نفس-برادر-جوان ۷. نانوا-نوید-عصاره کنجد ۸. کشور آسیایی-هوای فرار-زمزمه زرتشتیان ۹. معروف-پسر ۱۰. پهلوان-آخرین نازی-عابر ۱۱. بسیار کم عامیانه-تک-آدم آهنی ۱۲. مراسم بزرگداشت-بی حرمتی

عمودی:
۱. عمر-چاپلوسی ۲. چیستان-مادر-گل تاجریزی ۳. ملامت-فکاهی-ضربه فوتبالی ۴. حرف تایید عامیانه-حیله-میوه نیکو ۵. تکذیب-نورگیر ۶. سلاح ویرانگر-بالشتک-رمزینه ۷. نت سوم-پدافند-لباس جنگ ۸. کتاب ترسایان-نسب ۹. عود-ارزش-رهن ۱۰. نفس سیگاری-نزد ایرانیان است وبس-کشش ۱۱. سنگ گران بها-لطف-به علت ۱۲. کنایه از شایعه پراکندن-پیکر

حل جدول شماره ۷۴۵۱

معمای شطرنج

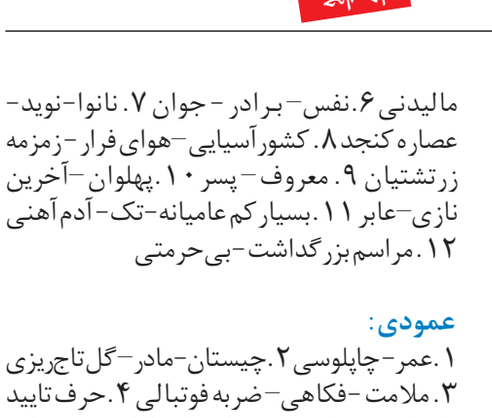

خفن استریپ

تست هوش

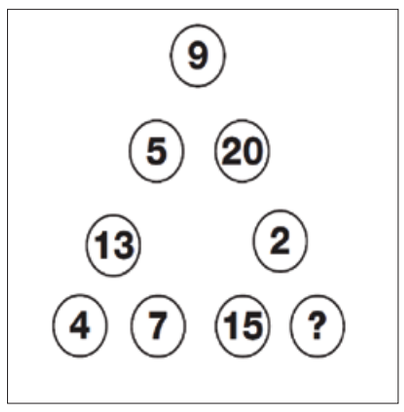

با توجه به منطق اعداد موجود در مثلث، عدد مربوط به جای علامت سوال را پیدا کنید.

مسیریاب

فقط با حرکت چشمانتان و حفظ تمرکز لازم، مسیر درست را در این مارپیچ پیدا کنید. با این ورزش تمرکز ذهن تان را بالا ببرید.



سودوکو

قانون: ارقام ۱ تا ۹ را در خانه‌های خالی بنویسید طوری که در هر سطر، در هر ستون و در هر مربع ۳ در ۳ هیچ رقمی تکراری نباشد.

متوسط ۳۰ دقیقه

				۵				
		۸	۹	۱			۶	۴
۲	۹						۱	۵
			۲			۶	۷	
		۶				۲		
	۲	۴			۷			
۶	۳						۵	۲
۷	۱			۳	۵	۴		
				۲				

سیار سخت ۵۰ دقیقه

		۷	۵	۴				
۹			۲		۷			
۴	۶	۲						
				۸	۴	۱		
	۲						۳	
		۸	۶	۷				
						۷	۵	۶
		۵	۱		۳			۴
				۹	۵	۳		

حل جداول و معماها



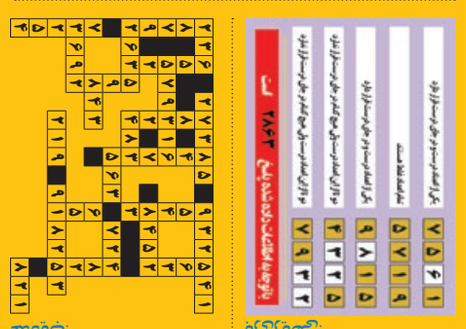

خرداد ۹۸ - آزمون نشان

معمای دزدی از کارخانه کفش: دستیار دلار در یک کارخانه کفش پیاپی چهره در کارخانه دیگر کفش پای راست تولید کند.

معمای هفت رفیق در کلبه: نفر هفتم با نفر چهارم در حال بازی شطرنج است.

خفن استریپ: جرده گرفتن - آزمون نشان

اختلاف تصاویر: ۱۱ تست طولش: ۱۱

معمای شطرنج: در هر خانه یک مثلث، مجموع دو عدد گوشه‌ای در یکی از دوایر همان خانه نوشته شده به همین ترتیب تقابل دو عدد گوشه.

عدد یاب: ۲۸۶۳ با توجه به اطلاعات داده شده پاسخ ۲۸۶۳ است